تم تحميل وعرض المادة من :

موقع واجباتي
www.wajibati.net

موقع واجباتي منصة تعليمية تساهم بنشر
حل المناهج الدراسية بشكل متميز لترتقي بمجال التعليم
على الإنترنت ويستطيع الطلاب تصفح حلول الكتب مباشرة
لجميع المراحل التعليمية المختلفة

* جميع الحقوق محفوظة للقائمين على الموقع *

بسم الله الرحمن الرحيم

المادة/رياضيات. الصف/الثالث الإبتدائى

الموضوع/ علاقة القسمة بالطرح التاريخ/.....

الاسم/..... الحصة/.....

استعمل الطرح المتكرر لأقسم :

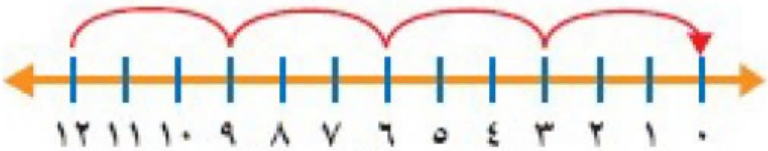

١٢ ÷ ٣

= .....

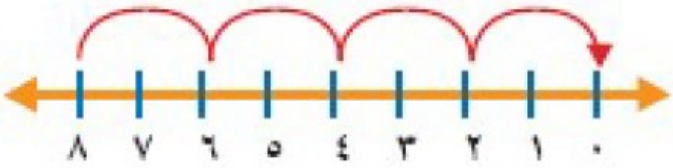

٨ ÷ ٢

= .....

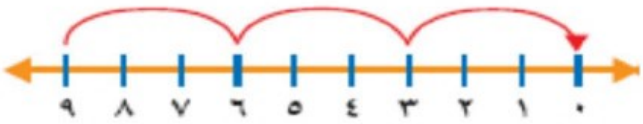

٩ ÷ ٣

= .....

توقيع المعلم:	أتقن		لم يتقن		توقيع ولي الأمر : .....

بسم الله الرحمن الرحيم

المادة/رياضيات.　　الصف/الثالث الإبتدائى .

الموضوع/علاقة القسمة بالضرب .　　التاريخ/.....

الاسم/.....　　الحصة/.....

: أستعمل الشَّبكات لأكملُ كلَّ زوجٍ من الجمل العدديَّة:



توقيع المعلم:	أتقن	لم يتقن	توقيع ولي الأمر : .....

بسم الله الرحمن الرحيم

المادة/رياضيات. الصف/الثالث الإبتدائى .

الموضوع/مهارة حل مسألة . التاريخ/.....

الاسم/..... الحصة/.....

: قدمت كل من عائشة وخديجة الهدايا الآتية جوائز في حفلة نهاية العام الدراسي .

الجائزةُ	العَددُ
كُتُبٌ	٥
سَاعَاتٌ	٤
حَقَائِب	٦

توقيع المعلم:	أتقن		لم يتقن		توقيع ولي الأمر : .....

بسم الله الرحمن الرحيم

المادة/رياضيات.　　الصف/الثالث الإبتدائى .

الموضوع/ القسمة على ٢　　التاريخ/.....

الاســـــم/.....　　الحصة/.....

: أجد ناتج القسمة ثم أكتب حقيقية الضرب المتراطبة معها .

الحـــل

الحل

.....

.....

.....

.....

توقيع المعلم:	أتقن		لم يتقن		توقيع ولي الأمر : .....

بسم الله الرحمن الرحيم

المادة/رياضيات. الصف/الثالث الإبتدائى .

الموضوع/ القسمة على ٥ التاريخ/.....

الاسم/..... الحصة/.....

: أجد ناتج القسمة مستعملا النماذج أو الحقائق المترابطة .

٣٥ ÷ ٥ .....

٢٠ ÷ ٥ .....

٤٠ ÷ ٥ .....

توقيع المعلم:	أتقن		لم يتقن	توقيع ولي الأمر : .....

بسم الله الرحمن الرحيم

المادة/رياضيات.

الصف/الثالث الإبتدائى .

الموضوع/ القسمة على ١٠

التاريخ/.....

الاسم/.....

الحصة/.....

أجد ناتج القسمة :

٢٠ ÷ ١٠ = ...

٥٠ ÷ ١٠ = ...

٨٠ ÷ ١٠ = ...

توقيع المعلم:	أتقن		لم يتقن	توقيع ولي الأمر : .....

بسم الله الرحمن الرحيم

المادة/رياضيات.　　الصف/الثالث الإبتدائى .

الموضوع/ القسمة مع الصفر وعلى الواحد　　التاريخ/.....

الاسم/.....　　الحصة/.....

أجد ناتج القسمة :

٥ ÷ ١ = ...

٠ ÷ ١ = ...

١ ÷ ١ = ...

توقيع المعلم:	أتقن		لم يتقن		توقيع ولي الأمر : .....

بسم الله الرحمن الرحيم

المادة/رياضيات.　　الصف/الثالث الإبتدائى .

الموضوع/ القسمة على ٣ وعلى ٤　　التاريخ/.....

الاسم/.....　　الحصة/.....

: أستعمل قطع العد أو الحقائق المترابطة لأجد ناتج القسمة :

١٥ ÷ ٣ = ...

١٦ ÷ ٤ = ...

١٨ ÷ ٣ = ...

٢٠ ÷ ٤ = ...

٣ ÷ ٣ = ...

٩ ÷ ٣ = ...

توقيع المعلم:	أتقن		لم يتقن	توقيع ولي الأمر : .....

بسم الله الرحمن الرحيم

المادة/رياضيات.　　الصف/الثالث الإبتدائى .

الموضوع/ خطة حل مسألة　　التاريخ/.....

الاسم/.....　　الحصة/.....

: اشـــترى وليد ٣٢ كتابا . فما عدد الكتب المجانية التى حصل عليها ؟

.....

.....

.....

.....

.....

توقيع المعلم:	أتقن		لم يتقن		توقيع ولي الأمر : .....

بسم الله الرحمن الرحيم

المادة/رياضيات.

الصف/الثالث الإبتدائى .

الموضوع/ القسمة على ٦ ، ٧.

التاريخ/.....

الاسم/.....

الحصة/.....

: استعمل النماذج أو الطرح المتكرر لإيجاد ناتج القسمة :

٣٥ ÷ ٧ = ...

٣٠ ÷ ٦ = ...

٤٢ ÷ ٧ = ...

٢٤ ÷ ٦ = ...

٤٩ ÷ ٧ = ...

٢٨ ÷ ٧ = ...

توقيع المعلم:	أتقن		لم يتقن	توقيع ولي الأمر : .....

بسم الله الرحمن الرحيم

المادة/رياضيات.　　الصف/الثالث الإبتدائى .

الموضوع/ القسمة على ٨ ، ٩　　التاريخ/.....

الاسم/.....　　الحصة/.....

: استعمل النماذج أو الطرح المتكرر لإيجاد ناتج القسمة :

٨ ÷ ٨ = ...

١٦ ÷ ٨ = ...

٢٧ ÷ ٩ = ...

٣٦ ÷ ٩ = ...

٨١ ÷ ٩ = ...

١٨ ÷ ٩ = ...

٢٤ ÷ ٨ = ...

٣٢ ÷ ٨ = ...

توقيع المعلم:	أتقن		لم يتقن	توقيع ولي الأمر : .....

بسم الله الرحمن الرحيم

المادة/رياضيات.

الصف/الثالث الإبتدائى .

الموضوع/ استقصاء حل مسألة

التاريخ/.....

الاسم/.....

الحصة/.....

أيهما يكلف أكثر شراء حقيبتين أم شراء ٣ أحذية ؟

أوضع اجابتى .

الحل : .....

.....

.....

.....

.....

.....

توقيع المعلم:	أتقن		لم يتقن		توقيع ولي الأمر : .....

بسم الله الرحمن الرحيم

المادة/رياضيات. الصف/الثالث الإبتدائى .

الموضوع/ وحدات الطول المترية التاريخ/.....

الاسم/..... الحصة/.....

: أختار الوحدة المناسبة لقياس كل من الأطوال الآتية

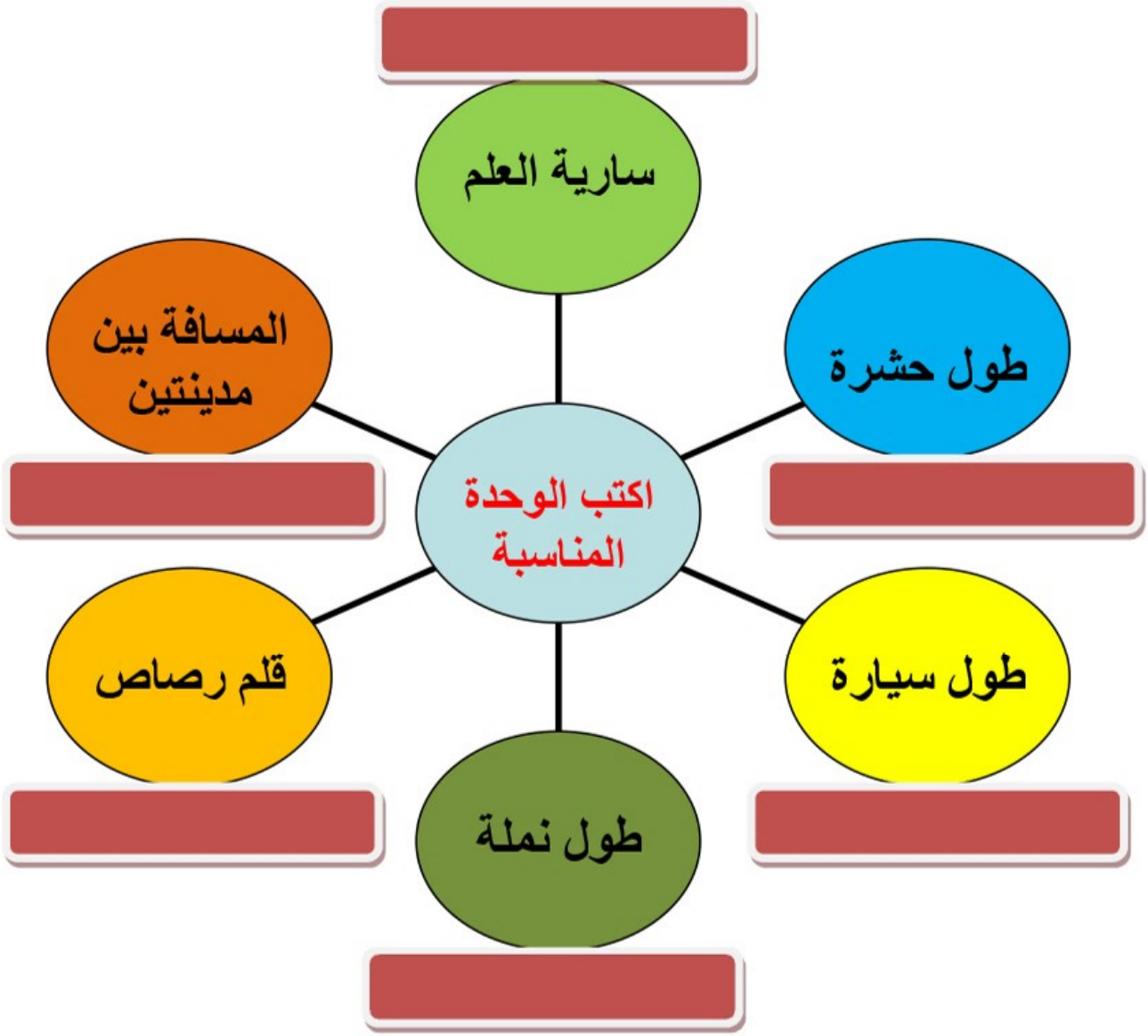

توقيع المعلم:	أتقن		لم يتقن	توقيع ولي الأمر : .....

بسم الله الرحمن الرحيم

المادة/رياضيات.　　الصف/الثالث الإبتدائى .

الموضوع/ خطة حل مسألة　　التاريخ/.....

الاسم/.....　　الحصة/.....

: يوضح الجدول ادناه الانشطة التالى قام بها على . فإذا كان على قد انتهى منها فى الساعة السابعة مساء ، فمتى بدأ ؟

أَنْشِطَةُ عَلِيٍّ	
النَّشَاطُ	الْمُدَّةُ
لَعِبُ كُرَةِ الْقَدَمِ	سَاعَةٌ واحِدَةٌ
الْمُذَاكَرَةُ	٣ سَاعات

الحل.....

.....

.....

.....

توقيع المعلم:	أتقن	لم يتقن	توقيع ولي الأمر : .....

بسم الله الرحمن الرحيم

المادة/رياضيات.

الموضوع/ المحيط

الاسم/.....

الصف/الثالث الإبتدائى .

التاريخ/.....

الحصة/.....

: أجد محيط كل شكل من الأشكال التالية :

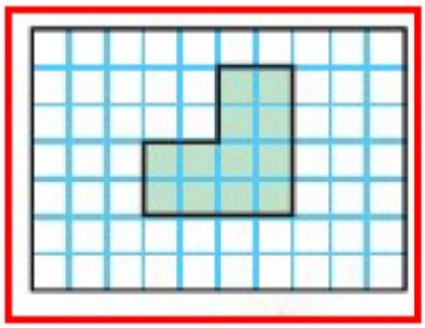

.....
.....
.....
.....
.....
.....
.....

.....
.....
.....
.....
.....
.....
.....

توقيع المعلم:	أتقن		لم يتقن		توقيع ولي الأمر : .....

بسم الله الرحمن الرحيم

المادة/رياضيات.　　الصف/الثالث الإبتدائى .

الموضوع/ قياس المساحة　　التاريخ/.....

الاسم/.....　　الحصة/.....

: أجد محيط كل شكل من الأشكال التالية :

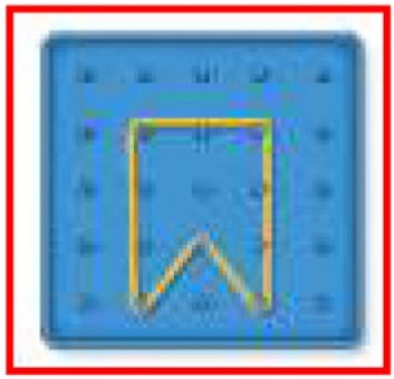

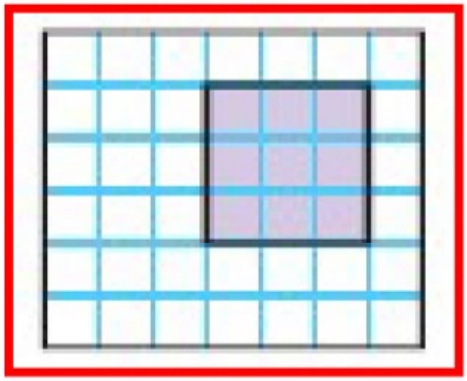

.....
.....
.....
.....
.....
.....
.....
.....
.....

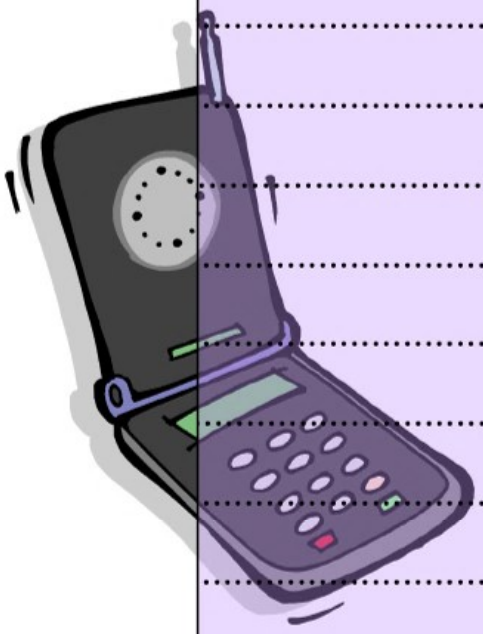

.....
.....
.....
.....
.....
.....
.....
.....
.....

توقيع المعلم:	أتقن		لم يتقن		توقيع ولي الأمر : .....

بسم الله الرحمن الرحيم

المادة/رياضيات.　　الصف/الثالث الإبتدائى .

الموضوع/ وحدات السعة المترية　　التاريخ/.....

الاسم/.....　　الحصة/.....

: أختار التقدير الأفضل .

٥ مِل أَمْ ٥ ل

٢٥٠ ل أَمْ ٢٥٠ مِل

.....

.....

.....

.....

.....

.....

.....

.....

.....

.....

.....

.....

توقيع المعلم:	أتقن		لم يتقن	توقيع ولي الأمر : .....

بسم الله الرحمن الرحيم

المادة/رياضيات.　　الصف/الثالث الإبتدائى .

الموضوع/ وحدات الكتلة المترية　　التاريخ/.....

الاسم/.....　　الحصة/.....

: أختار التقدير الأفضل .



.....

.....

.....

.....

.....

.....

.....

.....

.....

.....

.....

.....

توقيع المعلم:	أتقن		لم يتقن		توقيع ولي الأمر : .....

بسم الله الرحمن الرحيم

المادة/رياضيات.　　الصف/الثالث الإبتدائى .

الموضوع/ تقدير الحجم وقياسه　　التاريخ/.....

الاسم/.....　　الحصة/.....

: أختار التقدير الأفضل .

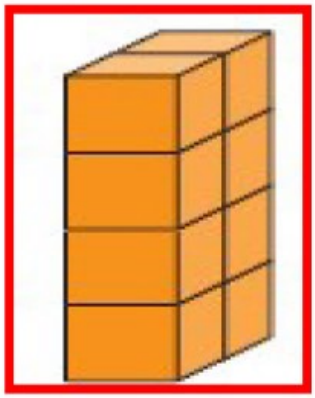

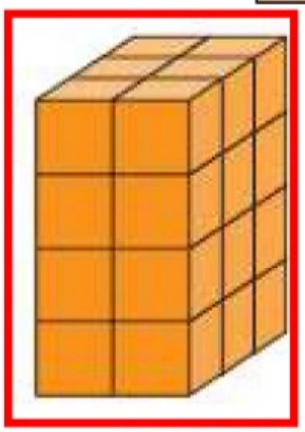

.....
.....
.....
.....
.....
.....

.....
.....
.....
.....
.....
.....

توقيع المعلم:	أتقن		لم يتقن		توقيع ولي الأمر : .....

بسم الله الرحمن الرحيم

المادة/رياضيات.　　الصف/الثالث الإبتدائى .

الموضوع/ الزمن : قراءة الساعة　　التاريخ/.....

الاسم/.....　　الحصة/.....

: أكتب الزمن الذى تشير اليه الساعة الرقمية أو الساعة العادية .



.....
.....
.....
.....
.....
.....
.....
.....

.....
.....
.....
.....
.....
.....
.....
.....

توقيع المعلم:	أتقن		لم يتقن	توقيع ولي الأمر : .....

بسم الله الرحمن الرحيم

المادة/رياضيات.

الموضوع/ المجسمات

الاسم/.....

الصف/الثالث الإبتدائى .

التاريخ/.....

الحصة/.....

:أذكر أسماء المجسمات الآتية :

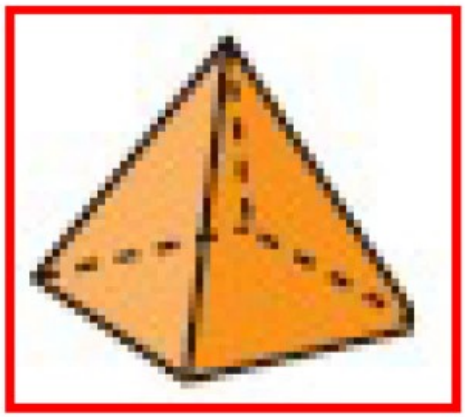

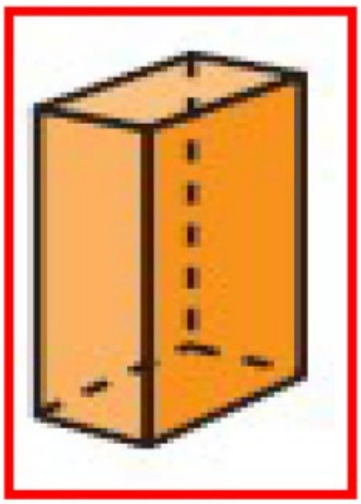

.....
.....
.....
.....
.....
.....
.....
.....

.....
.....
.....
.....
.....
.....
.....
.....

توقيع المعلم:
.....

أتقن

لم يتقن

توقيع ولي الأمر :
.....

بسم الله الرحمن الرحيم

المادة/رياضيات.

الصف/الثالث الإبتدائى .

الموضوع/ الاشكال المتساوية

التاريخ/.....

الاسم/.....

الحصة/.....

: أصف الشكل المستوى مستعملا عدد الأضلاع وعدد الزوايا ثم أسميه :



.....

.....

.....

.....

.....

.....

.....

.....

.....

.....

توقيع المعلم:
.....

أتقن

لم يتقن

توقيع ولي الأمر :
.....

بسم الله الرحمن الرحيم

المادة/رياضيات.　　الصف/الثالث الإبتدائى .

الموضوع/ خطة حل مسألة　　التاريخ/.....

الاسم/.....　　الحصة/.....

: إطار خشبى مستطيل الشكل يزيد كل من طوله وعرضه بـ٢سم على طول وعرض الصورة أدناه أجد محيط الإطار الخشبى .

.....

.....

.....

.....

.....

.....

.....

.....

.....

.....

.....

.....

توقيع المعلم:	أتقن		لم يتقن		توقيع ولي الأمر : .....

بسم الله الرحمن الرحيم

المادة/رياضيات.　　الصف/الثالث الإبتدائى .

الموضوع/ الأنماط الهندسية　　التاريخ/.....

الاسم/.....　　الحصة/.....

: أحدد النمط وأوسعه .





توقيع المعلم:	أتقن		لم يتقن		توقيع ولي الأمر : .....

بسم الله الرحمن الرحيم

المادة/رياضيات.　　الصف/الثالث الإبتدائى .

الموضوع/ إستقصاء حل مسألة　　التاريخ/.....

الاسم/.....　　الحصة/.....

: ذهب سعد وأصدقاؤه الأربعة الى مملكة الأطفال .
أستعمل الجدول الموضح أدناه كى أجد كم ريالا دفعوا؟

أسعار اللعب للفرد الواحد

المركب	.....	٥ ريالات
السيارات	.....	٥ ريالات
الأرجوحة	.....	ريالان
القلعة	.....	٣ ريالات

توقيع المعلم: .....　　أتقن　　لم يتقن　　توقيع ولي الأمر : .....

بسم الله الرحمن الرحيم

المادة/رياضيات.　　الصف/الثالث الإبتدائى .

الموضوع/ التماثل　　التاريخ/.....

الاســـــم/.....　　الحصة/.....

: أحدد هل للشكل محور تماثل ؟

الحل

.....

.....

.....

.....

الحل

.....

.....

.....

.....

توقيع المعلم:
.....

أتقن

لم يتقن

توقيع ولي الأمر :
.....

بسم الله الرحمن الرحيم

المادة/رياضيات. الصف/الثالث الإبتدائى .

الموضوع/ التمثيل بالرموز التاريخ/.....

الاسم/..... الحصة/.....

أمثل البيانات فى الجدول المجاور بالرموز وأجعل كل رمز يمثل بقرتين .

مَزْرَعَةُ أَبْقَار		
لَوْنُ الْبَقَرَةِ	الإِشَارَاتُ	عَدَدُ الأَبْقَارِ
أَسْوَدُ	𝍸 𝍸 𝍸 𝍸 𝍸 𝍸 𝍸 𝍸	٨
بُنِّيٌّ	𝍸 𝍸 𝍸 𝍸	٤
أَبْيَضُ	𝍸 𝍸 𝍸 𝍸	٥

توقيع المعلم: ..... | أتقن | لم يتقن | توقيع ولي الأمر : .....

بسم الله الرحمن الرحيم

المادة/رياضيات. الصف/الثالث الإبتدائى .

الموضوع/ تفسير التمثيل بالرموز التاريخ/.....

الاسم/..... الحصة/.....

: أجيب عن الأسئلة التالية مستعملا التمثيل أدناه :

قِيَاسَاتُ أَحْذِيَةِ طُلَّابِ الصَّفِّ الثَّالِثِ	
٣٣	
٣٤	
٣٥	
٣٦	
مِفْتَاحٌ: = ٤ طُلَّابٍ	

١) ما مقدار الحذاء الأكثر شيوعا .

.....

.....

.....

.....

توقيع المعلم:	أتقن	لم يتقن	توقيع ولي الأمر : .....

بسم الله الرحمن الرحيم

المادة/رياضيات. الصف/الثالث الإبتدائى .

الموضوع/ خطة حل مسألة التاريخ/.....

الاسم/..... الحصة/.....

: أكتب الطرق الممكنة جميعها لعمل شطيرة تتكون من نوع واحد من الخبز ونوع واحد من اللحم ونوع واحد من الجبن.

جُبْنٌ	لَحْمٌ	خُبْزٌ
أبيض	دَجَاجٌ	أَسْمَرُ
مَطْبُوخٌ	غَنَمٌ	أَبْيَضُ

.....

.....

.....

.....

.....

توقيع المعلم:	أتقن		لم يتقن	توقيع ولي الأمر : .....

بسم الله الرحمن الرحيم

المادة/رياضيات. الصف/الثالث الإبتدائى .

الموضوع/ التمثيل بالأعمدة التاريخ/.....

الاسم/..... الحصة/.....

: أمثل مجموعة البيانات الموضحة أدناه بأعمدة أفقية.

الحل

المنتخباتُ الفائزةُ بدورةِ كأسِ الخليجِ (١٩٧٠ - ٢٠٠٧)

المُنْتَخَبُ	الإشاراتُ
الكويت	~~||||~~
العراق	|||
قطر	||
السعودية	|||
الإمارات		
عمان		

توقيع المعلم:	أتقن		لم يتقن		توقيع ولي الأمر : .....

بسم الله الرحمن الرحيم

المادة/رياضيات.

الصف/الثالث الإبتدائى .

الموضوع/ الأحتمال

التاريخ/.....

الاسم/.....

الحصة/.....

: أصف احتمال كل لون ، وأكتب (أكيـد أو أكثر احتمالا أو أقل احتمالا أو مستحيل) .

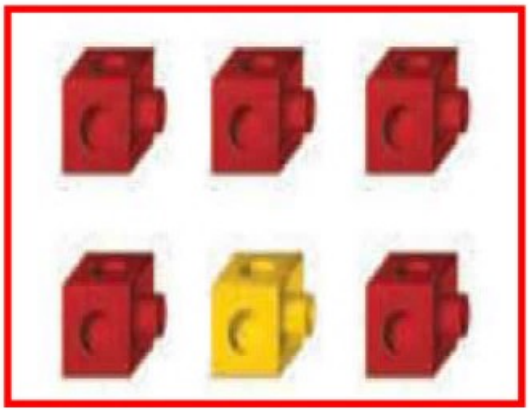

أحمـــر ↔ .....

أصفـــر ↔ .....

أخضـــر ↔ .....

أزرق ↔ .....

توقيع المعلم: .....

أتقن

لم يتقن

توقيع ولي الأمر : .....

بسم الله الرحمن الرحيم

المادة/رياضيات.

الصف/الثالث الإبتدائى .

الموضوع/ الكسور كأجزاء من الكل .

التاريخ/.....

الاسم/.....

الحصة/.....

: مثل الجزء الملون بالأزرق ثم أكتب الكسر الذى يمثل الجزء غير الملون بالأزرق .

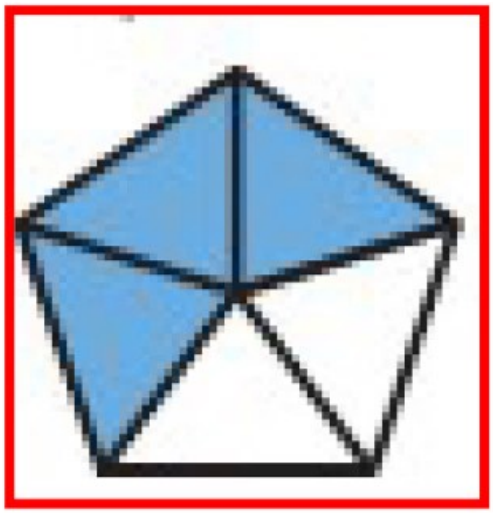

توقيع المعلم:
.....

أتقن

لم يتقن

توقيع ولي الأمر :
.....

بسم الله الرحمن الرحيم

المادة/رياضيات.

الصف/الثالث الإبتدائى .

الموضوع/ الكسور كأجزاء من مجموعة

التاريخ/.....

الاسم/.....

الحصة/.....

: أكتب الكسر الذى يمثل الاشياء الصفراء ثم
اكتب الكسر الذى يمثل الأشياء غير الصفر :



_____

_____

توقيع المعلم:	أتقن		لم يتقن		توقيع ولي الأمر : .....

بسم الله الرحمن الرحيم

المادة/رياضيات.　　الصف/الثالث الإبتدائى .

الموضوع/ الكسور المتكافئة　　التاريخ/.....

الاسم/.....　　الحصة/.....

أكمل لأحصل على كسرين متكافئين .

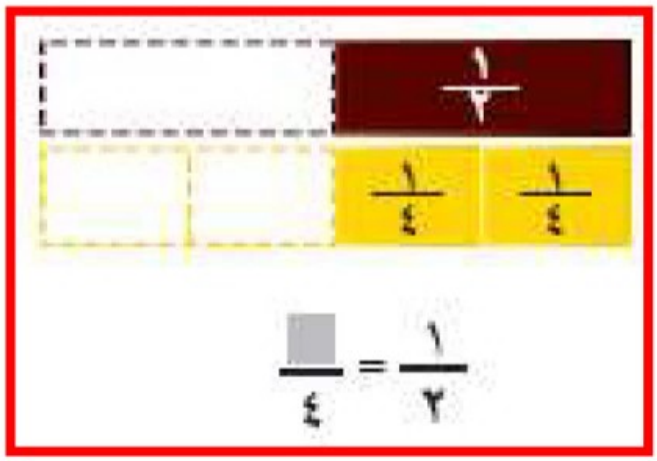

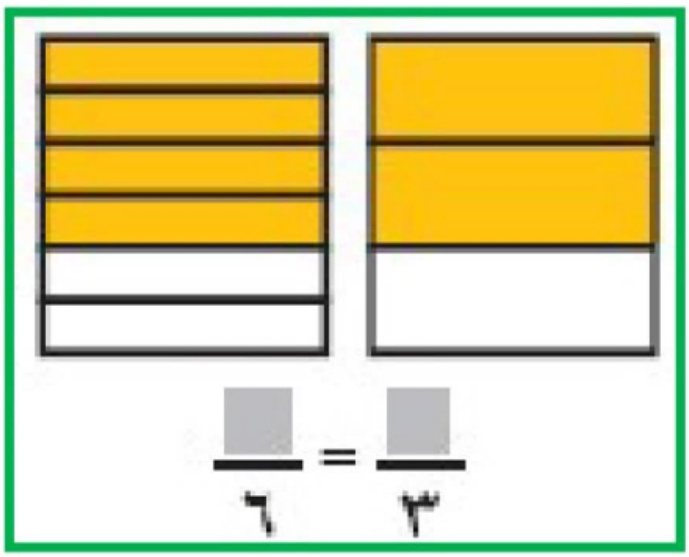

توقيع المعلم:	أتقن		لم يتقن	توقيع ولي الأمر : .....

بسم الله الرحمن الرحيم

المادة/رياضيات. الصف/الثالث الإبتدائى .

الموضوع/ خطة حل مسألة التاريخ/.....

الاسم/..... الحصة/.....

: فى أحد الأحياء تسكن ٣٦ عائلة والجدول الآتى يبين الكسر الذى يمثل العائلات التى لديها أطفال وتلك التى ليس لديها أطفال . فما عدد العائلات التى لديها أطفال ؟

عائلاتٌ لَدَيْهَا أَطْفالٌ	عائلاتٌ لَيْسَ لَدَيْهَا أَطْفالٌ
$\frac{٣}{٤}$	$\frac{١}{٤}$

.....
.....
.....
.....
.....
.....
.....
.....
.....
.....
.....
.....
.....
.....

توقيع المعلم:	أتقن	لم يتقن	توقيع ولي الأمر : .....

بسم الله الرحمن الرحيم

المادة/رياضيات. الصف/الثالث الإبتدائى .

الموضوع/ مقارنة الكسور وترتيبها التاريخ/.....

الاسم/..... الحصة/.....

: أقارن مستعملا (> أو < أو =)

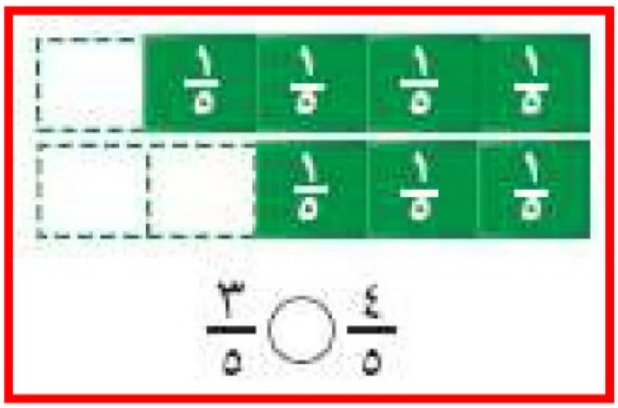

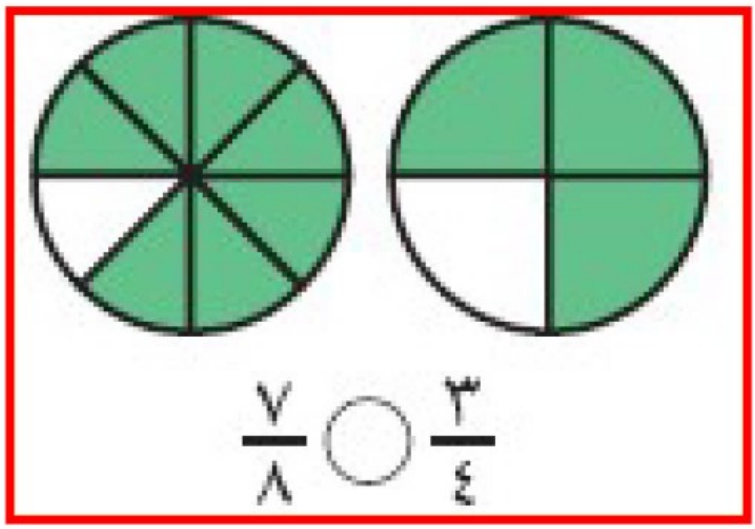

توقيع المعلم:	أتقن	○	لم يتقن	○	توقيع ولي الأمر : .....